4. SINIF MATEMATİK
Toplama ve Çıkarma İşlemi Problemleri-I

Adı Soyadı :..... Sınıfı :..... No :.....

Aşağıdaki problemleri çözelim.

Bir mağazadan 1499 liraya çamaşır makinesi, 2463 liraya buzdolabı aldık. Mağazaya toplam kaç lira ödeme yapmamız gerekmektedir?

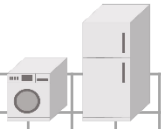

Annemin 3450 lira maaş almaktadır. Babamın maaşı ise annemin maaşından 250 lira fazladır. Buna göre ailemizin aylık geliri ne kadardır?

Dedem 1942 yılında doğmuştur. Ben ise dedemden 56 yaş küçüğüm. Buna göre ben hangi yılda doğdum?

Bahçemizden 3465 kg elma, 2960 kg armut ve armutlardan 300 kg eksik nar topladık. Bahçemizden toplam kaç kg meyve topladık?



Bir manav pazartesi günü 2347 ve salı günü 3196 kg meyve satmıştır. Bu manav iki günde toplam kaç kg meyve satmıştır?

Bir çiftlikte 2500 koyun, koyunlardan 750 eksik kuzu, kuzulardan 465 fazla keçi vardır. Bu çiftlikte toplam kaç hayvan vardır?

6456 lira olan aile bütçemizden 1456 lira market, 785 lira manav harcaması ve 839 lira fatura ödemesi yaptık. Kaç liramız kaldı?

Bir fırıncı öğleden önce 3246, öğleden sonra 4335 ekmek yapmıştır. Ekmeklerin 5636 tanesini satan fırıncının geriye kaç ekmeği kalmıştır?

Meb Ders .Com

4. SINIF MATEMATİK
Toplama ve Çıkarma İşlemi Problemleri-2

Adı Soyadı :..... Sınıfı :..... No :.....

Aşağıdaki problemleri çözelim.

Bir fidan dikme çalışmalarında 2539 çam, çam fidanlarından 394 fazla da servi fidanı dikilmiştir. Buna göre toplam kaç fidan dikilmiştir?

Yusuf'un almak istediği motosiklet 7500 liradır. Annesinden 3496, babasından 2675 lira alan Yusuf'un kaç liraya ihtiyacı vardır?

Bir pastanede pazartesi günü 984, salı günü ise bir önceki günden 352 eksik pasta satılmıştır. Buna göre iki günde kaç pasta satılmıştır?

1881 yılında doğup 1938 yılında vefat eden Atatürk kaç yıl yaşamıştır?

Okulumuzda 2026 kız, kızlardan 365 eksik erkek öğrenci vardır. Buna göre okulumuzun mevcudu kaçtır?

Annemden 857 lira aldım. Babam ise annemden 249 lira daha fazla para verdi. 1899 liraya bir tablet almak için kaç liram daha olmalıdır?

Bir otomobilin ağırlığı 1155 kg'dır. Bir minibüs ise bu otomobilden 1769 kg daha ağırdır. Otomobil ile minibüsün ağırlıkları toplamı kaç kg'dır?

Geri dönüşüm için okulumuzda 4389 kg kağıt, 3796 kg kitap toplanmıştır. Buna göre toplam kaç kg geri dönüşüm malzemesi toplanmıştır?

4. SINIF MATEMATİK
Toplama ve Çıkarma İşlemi Problemleri-3

Adı Soyadı :..... Sınıfı :..... No :.....

Aşağıdaki problemleri çözelim.

Bir filin ağırlığı 6395 kg'dır. Bir zürafa ise filden 938 kg daha hafiftir. Buna göre zürafa kaç kg'dır?



Annem 1986 yılında doğmuş. Ben ise 2012 yılında doğdum. Buna göre annemle benim yaşlarımızın toplamı kaçtır?

Bir mağazadan 1299 liraya takım elbise ve 459 liraya ayakkabı aldım. Satıcıya 1800 lira verdiğime göre kaç lira para üstü almalıyım?

Bir ormanda 2198 meşe, 1365 çam ve 3925 kavak ağacı vardır. Bu ormanda toplam kaç ağaç vardır?

Bir fırında pazartesi günü 4352, salı günü ise pazartesi gününden 658 eksik ekmek satılmıştır. Bu fırında Salı günü kaç ekmek satılmıştır?

Bahçemizden 3750 kg elma topladık. 1965 kg elma sattık. 362 kg elma ise çürüdü. Geriye kaç kg elma kaldı?

Bir sürüde 2391 koyun, koyunlardan 468 eksik de kuzu vardır. Buna göre sürüde toplam kaç hayvan vardır?

Bir kütüphanedeki 8632 kitabın 3625 tanesi hikaye, 2368 tanesi roman ve diğerleri de şiir kitabıdır. Buna göre şiir kitaplarının sayısı kaçtır?